
MATEO
MATEMÁTICAS
APRENDE • PIENSA • RESUELVE
9 DESAFÍOS DE SUPERHÉROES
¿Tienes lo necesario para completar todas las misiones?
AYUDA a los héroes
RESUELVE misterios
SUPERA desafíos
PARA ESTUDIANTES DE 3°, 4° Y 5° DE PRIMARIA
¡LA AVENTURA COMIENZA AQUÍ!

¡Hola, soy Mateo! 👋

Necesito tu ayuda para una misión muy importante.

El Capitán Caos Numérico ha estado haciendo travesuras por toda la ciudad: ha confundido números, desordenado patrones y creado problemas que nadie ha podido resolver.

Por suerte contamos con **mi prima y aliada Emma (nuestra experta en pistas secretas)**

Emma y yo sabemos que hay niños y niñas valientes capaces de ayudarnos.

En estas 9 misiones tendrás que ayudar a los Superhéroes a resolver misterios y encontrar soluciones para devolver el orden a la ciudad.

⭐ Si alguna misión parece difícil, no te preocupes.
Los grandes héroes no se rinden. Piensan, prueban y vuelven a intentarlo.

🔍 Y si necesitas una pista en algún momento, al final encontrarás el Centro de Verificación de Superhéroes, donde podrás revisar el paso a paso y comprobar tus respuestas.

🏆 **¿Aceptas la misión?**





¡Entonces pasa la página y comencemos la aventura!

© 2026 Mateo Matemáticas • Material original protegido por derechos de autor.
Uso exclusivo personal, familiar y educativo; prohibida su venta o reproducción comercial sin autorización.

Instrucciones para la misión

Antes de comenzar, sigue estos 4 sencillos pasos:

1️⃣ Lee muy bien la misión.

2️⃣ Piensa en tu estrategia para resolverla.

3️⃣ Escribe tu respuesta.

4️⃣ Comprueba si superaste la misión en el Centro de Verificación que encontrarás al final de estas páginas.

📝 **Consejo de Mateo y Emma:** *Ten papel y lápiz a mano. Algunas misiones se resuelven mejor cuando puedes dibujar, escribir, o probar ideas.*

🦸 ¡Compromiso de los Superhéroes!

Antes de comenzar, repite estas palabras:

Prometo usar mi ingenio,
pensar antes de rendirme,
aprender de mis errores
y dar lo mejor de mí en cada misión.

⭐ Porque los verdaderos héroes nunca dejan de intentarlo.

Mi nombre secreto de Superhéroe o Superheroína es:

✍️ _____



MAPA DE NIVELES

Las 9 misiones están organizadas en 3 niveles de entrenamiento.

¡Completa el bloque de retos para conquistar cada Nivel!

🛡️ **NIVEL AZUL**
(3° de Primaria - Misiones 1 a 3)
Tu insignia al completarlo:
Genio de las Pistas 🏅

⚡ **NIVEL VERDE**
(4° de Primaria - Misiones 4 a 6)
Tu insignia al completarlo:
Experto en códigos secretos 🏅

🏆 **NIVEL DORADO**
(5° de Primaria - Misiones 7 a 9)
Tu insignia al completarlo:
Maestro de los desafíos 🏅

⚡ Misión 1: La Carga del Rayo

El superhéroe El Rayo necesita cargar su traje al máximo para poner en orden al Capitán Caos Numérico.

Cada misión completada aumenta la energía de su uniforme **siguiendo este patrón secreto:**



⚡ **2 → 4 → 7 → 11 → ? → ?**

Si el traje de El Rayo tiene 6 niveles de potencia, ¿cuáles serán los dos niveles que faltan?

🎯 **Tu misión:** Descubrir los dos códigos que faltan para completar la carga de El Rayo.

Escribe tus respuestas

⚡ _____

⚡ _____

⬜ ¡Misión completada!

¡Excelente trabajo!
Cada misión resuelta ayuda a devolver el orden a la ciudad.
— Tu amigo Mateo.

🏃‍♀️ Misión 2 : La Carrera de Estrella Veloz

La superheroína Estrella Veloz se prepara para una gran carrera por la ciudad.

El Capitán Caos ha mezclado los datos de la pista de entrenamiento de Estrella Veloz.

Estrella Veloz necesita tu ayuda para descubrir la distancia correcta.

La pista es rectangular:

📏 **Largo = 20 metros**
📏 **Ancho= 10 metros**

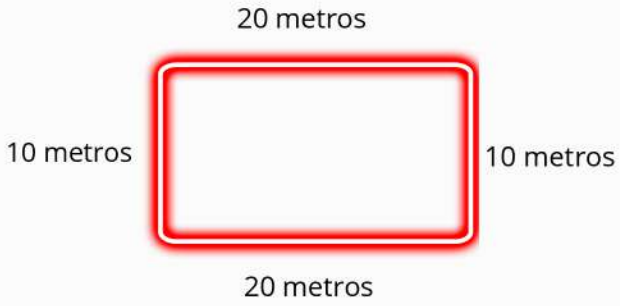

Si Estrella Veloz da una vuelta completa alrededor de la pista, ¿cuántos metros corre?

🎯 Tu misión:

Ayudar a Estrella Veloz a descubrir la distancia total de una vuelta.

✍️ **Escribe tu respuesta:** _ _ _ _ _ _ _ _ _ _

⬜ ¡Misión completada!

¡Fantástico!
Gracias a ti, Estrella Veloz ya puede continuar su entrenamiento.
— Tu amiga Emma.



Misión 3: El Dron de Emma y los Planos Secretos

El Capitán Caos robó los planos secretos y los escondió en el Sector de Vigilancia. Emma salió con su dron para rastrear el terreno paso a paso.

Zona 1	Zona 2
Zona 3	Zona 4

El dron de Emma ya revisó $\frac{3}{4}$ (tres cuartas partes) del terreno buscando los planos.

¿Cuántas de las 4 zonas ya revisó el dron y cuántas zonas quedan sin revisar?

🎯 **Tu misión:** Colorea en el plano las zonas que el dron ya revisó, marca con una X la zona que aún falta por revisar y registra tus respuestas.

✍️**Escribe tus respuestas:**

- **Zonas revisadas por el dron: ____(de 4)**
- **Zonas que faltan por revisar: ____(de 4)**

⬜ ¡Misión completada!

¡Maravilloso!
Lograste ayudarme a revisar todas las zonas.
— Tu amiga Emma.

🪨 Misión 4: Las piedras de los escalones

El Guardián está ayudando a reparar unos escalones de la ciudad.

Pero el travieso Capitán Caos numérico ha desordenado el registro de las piedras que forman unos escalones especiales.

Antes de continuar las reparaciones, el Guardián necesita descubrir cuántas piedras faltan.

Observa el patrón:



Escalón 1 → 1 piedra
Escalón 2 → 3 piedras
Escalón 3 → 6 piedras
Escalón 4 → 10 piedras
Escalón 5 → ? piedras
Escalón 6 → ? piedras

🎯 **Tu misión:** Descubrir...

1️⃣ ¿Cuántas piedras hay en el escalón 5?
2️⃣ ¿Cuántas piedras hay en el escalón 6?
3️⃣ ¿Cuántas piedras hay en total en todos los escalones?

✍️ Escalón 5: _____
✍️ Escalón 6: _____
✍️ Total: _____

⬜ ¡Misión completada!

¡Excelente!
Cada desafío es una oportunidad para descubrir y aprender algo nuevo.
— Tu amigo Mateo.



Misión 5: Los Cristales de Energía

El reactor del Cuartel General funciona con tres tipos de cristales: Cristal Azul, Cristal Verde y Cristal Dorado.

El Capitán Caos Numérico borró las etiquetas de potencia de cada cristal.

¡Ayuda a Capitana Ingenio a descubrir cuántos puntos de energía vale cada uno observando las combinaciones del tablero!

🔷 + 🔷 = 10 puntos de energía
🔷 + 🟢 = 13 puntos de energía
🟢 + ⭐ = 20 puntos de energía

🎯 **Tu misión:** Descubre el valor de cada cristal y registra cuánta energía producen los tres juntos.

✍️Escribe tus respuestas:

- 🔷 Cristal Azul = _____ puntos
- 🟢 Cristal Verde = _____ puntos
- ⭐ Cristal Dorado = _____ puntos

⚡ **Energía total de los 3 cristales juntos: _____ puntos**

⬜ ¡Misión completada!

¡Genial!
Resolver una misión es como armar un rompecabezas: una pieza a la vez.
— Tu amiga Emma.



Misión 6: La Contraseña del Escudo

¡Alerta de seguridad! El Capitán Caos Numérico bloqueó el escudo protector del Cuartel General con una contraseña secreta de 3 números.

Mateo logró rastrear la computadora del villano y rescató 3 pistas para descifrar el código antes de que se agote la energía.

🔎 Observa las pistas de Mateo:

1. Es un número mayor que 300 y menor que 400.
2. El último número es el doble del primer número.
3. Si sumas los 3 números de la contraseña, el resultado es 14.

🎯 **Tu misión:** Usa las 3 pistas para descubrir cada dígito y desbloquear el escudo.

✍️ Escribe la contraseña secreta:



⬜ ¡Misión completada!

¡Fantástico!
Has completado todo el Nivel Verde usando tu ingenio de superhéroe.
— Tu amigo Mateo.



Misión 7: Interceptando al Capitán Caos

El Capitán Caos Numérico escapó de la ciudad en su Camión Blindado rumbo a la Frontera Norte, llevándose el disco duro con los planos de seguridad.

El villano lleva una ventaja de 100 kilómetros por la autopista. Centinela Estelar sale de inmediato en el Vehículo Interceptor para alcanzarlo antes de que cruce el límite de la región.

Datos del radar :

- 🛣️ Ventaja del Capitán Caos: 100 km de distancia
- 🚚 Velocidad del Camión Blindado: 60 km/h
- 🏎️ Velocidad del Vehículo Interceptor: 80 km/h

Si ambos vehículos avanzan sin detenerse por la misma autopista, ¿cuántas horas tardará el Vehículo Interceptor en alcanzar al Capitán Caos?

.

🎯 **Tu misión:** Calcula cuántos kilómetros se acerca el Vehículo Interceptor al Capitán Caos cada hora y descubre el tiempo exacto de captura.

✍️ Escribe tus respuestas:

_____ km/h
_____ (horas)

⬜ ¡Misión completada!

¡Genial!
Cada paso lógico te acerca a dominar los desafíos más difíciles.
— Tu amigo Mateo.

Misión 8: Centinela Estelar y la carrera de los héroes



Después de salvar la ciudad, cuatro superhéroes participaron en una carrera amistosa:

⚡ El Rayo | ⭐ Estrella Veloz | 🛡️ El Guardián | 🧠 Capitana Ingenio

Pero el travieso Capitán Caos Numérico mezcló los resultados y ahora nadie recuerda el orden de llegada.

Centinela Estelar *revisó las cámaras de la meta y rescató estas 3 pistas:*

1. **Estrella Veloz llegó antes que Capitana Ingenio.**
2. **El Rayo llegó justo detrás de Capitana Ingenio.**
3. **El Guardián llegó en último lugar.**

🎯 **Tu misión:** Registra el orden exacto en que llegaron los cuatro héroes a la meta.

✍️ 1º _____
✍️ 2º _____
✍️ 3º _____
✍️ 4º _____

⬜ ¡Misión completada!

¡Fantástico!
Las pistas están por todas partes. Aprendiste a observar lo que otros pasan por alto.
— Tu amiga Emma.



Misión 9: Reconstruyendo la ciudad

Gracias al trabajo de los superhéroes, el Capitán Caos Numérico ha sido detenido, pero varias zonas importantes de la ciudad resultaron dañadas. ***Constructor Titán debe reparar tres lugares antes de que anochezca:***

- 🏢 Plaza Central: 8 metros × 6 metros
- 📚 Biblioteca: 5 metros × 4 metros
- 🏥 Centro Médico: 5 metros × 3 metros

Reglas y presupuesto:
⚡ Cada metro cuadrado (m²) necesita 2 bloques de energía para ser reparado.
⚡Presupuesto disponible: En el almacén del Cuartel General solo hay 150 bloques de energía.

🎯 Tu misión:
1- Calcula el área de cada lugar y el área total que debe reconstruirse.
2- Calcula cuántos bloques de energía se necesitan en total.
3- Verifica si alcanzan los 150 bloques del almacén o cuántos bloques faltan.

✍️ Área de la Plaza Central: _____m²
✍️ Área de la Biblioteca: ____m²
✍️ Área del Centro Médico: _____ m²
✍️ Área total a reparar: _____ m²
✍️ Bloques de energía necesarios: _____ bloques
✍️ ¿Alcanzan los 150 bloques? [ ] Sí [ ] No, faltan _____ bloques

🏅 ¡Felicidades, Gran Misión Completada! ⬜

¡ÉPICO!
Cada misión te ayudó a descubrir algo importante: las matemáticas no son solo números, también son una forma de entender y explorar el mundo.
— Tu amigo Mateo.

CENTRO DE VERIFICACIONES DE SUPERHÉROES

¡Te damos la bienvenida al Centro de Verificaciones!

En las siguientes páginas descubrirás las estrategias y las pistas que usan Mateo y Emma para resolver cada misión.

Recuerda:

Lo más importante no es acertar siempre, sino ***aprender nuevas formas divertidas de pensar.***

— Tu amigo Mateo.



🔍 Centro de Verificación – Misión 1 ⚡

🎯 Solución paso a paso

PASO 1: Observa como cambian los números. **2 → 4 → 7 → 11 → ? → ?**

¿Qué ocurre cada vez?

2 + 2 = 4
4 + 3 = 7
7 + 4 = 11

¡Exacto descubrimos el patrón! En cada nivel de potencia se suma 1 más que la vez anterior (+2, +3, +4...).

PASO 2: Encuentra el nivel de potencia 5 (sumando +5) al resultado anterior.

11 + 5 = 16

PASO 3: Encuentra el nivel máximo 6 (sumando +6) al resultado anterior.

16 + 6 = 22

Respuesta: Los números que faltan son **16 y 22.**

🔎 Pista secreta de Mateo:

Antes de adivinar el final, revisa cómo cambia un número para convertirse en el siguiente.

⭐ Lo que aprendiste:

- Los patrones nos ayudan a descubrir números que faltan y a predecir cual viene después.
- Las secuencias no siempre suman lo mismo; a veces crecen paso a paso de forma ordenada.

🔍 Centro de Verificación – Misión 2 🏃‍♀️

🎯 Solución paso a paso

PASO 1: Una vuelta completa significa recorrer todo el borde de la pista.

La pista tiene:

📏 **Dos lados de 20 metros.**
📏 **Dos lados de 10 metros.**



PASO 2: Suma las medidas de todos los lados.

20 + 20 + 10 + 10 = 60

PASO 3: Descubre la distancia total de una vuelta.

60 metros

Respuesta:

⭐ Estrella Veloz corre **60 metros** en una vuelta completa.

💡 **Pista secreta de Emma:**
Cuando quieras calcular el recorrido alrededor de una figura, imagina que caminas por todo su borde y suma los lados sin olvidar ninguno.

🏅 **Dato importante:**

La suma total de los lados alrededor de una figura se llama Perímetro.

🔍 Centro de Verificación – Misión 3



🎯 Solución paso a paso

PASO 1 : Mira las partes de la fracción $\frac{3}{4}$

- El número de abajo (4, llamado denominador) indica que el Sector de Vigilancia está dividido en 4 zonas iguales.
- El número de arriba (3, llamado numerador) indica cuántas zonas ya revisó el dron.

PASO 2: Visualiza el mapa del terreno.

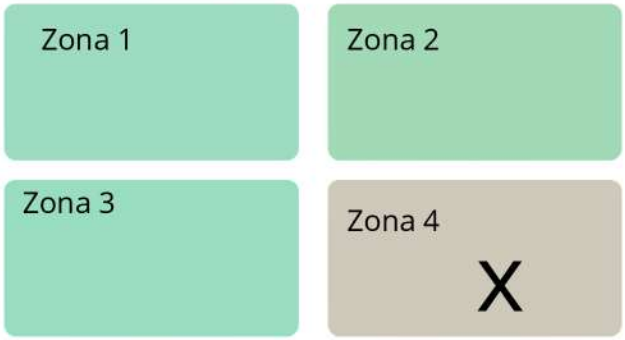

- Zonas revisadas - color verde (Zona 1, Zona 2 y Zona 3).
- Zona pendiente - marcada con X: (Zona 4).

Respuesta:

- ⭐ **Zonas revisadas por el dron: 3 (de 4) Equivale a** $\frac{3}{4}$
- ⭐ **Zonas que faltan por revisar: 1 (de 4) Equivale a** $\frac{1}{4}$

💡 **Tip de Mateo:** Cuando veas una fracción como $\frac{3}{4}$ recuerda siempre: el número de abajo te dice en cuántas partes iguales se dividió el total y el número de arriba te dice cuántas partes estamos tomando.

⭐ **Lo que aprendiste**: Ahora sabes leer fracciones y representarlas visualmente.

🔍 Centro de Verificación – Misión 4



🎯 Solución paso a paso

PASO 1: Observa cuántas piedras tiene cada escalón y como aumenta.

Escalón 1 → 1 piedra
Escalón 2 → 3 piedras (Aumenta 2 piedras)
Escalón 3 → 6 piedras (Aumenta 3 piedras)
Escalón 4 → 10 piedras (Aumenta 4 piedras)
Escalón 5 → ? piedras
Escalón 6 → ? piedras

PASO 2: Continúa el patrón. Si las diferencias aumentan de uno en uno, las siguientes serán:
Escalón 5 → 15 Piedras (Aumenta 5 piedras)
Escalón 6 → 21 Piedras (Aumenta 6 piedras)

PASO 3: Encuentra el total de piedras.

$$1 + 3 + 6 + 10 + 15 + 21 = 56$$

Respuestas:

🪨 **Escalón 5 = 15 piedras**
🪨 **Escalón 6 = 21 piedras**
🪨 **Total = 56 piedras**

🔎 **Pista secreta de Emma:**
Cuando los números no crecen siempre igual, anota la diferencia entre cada escalón: descubrirás un segundo patrón escondido.

⭐ **Lo que aprendiste:**
Cuando un patrón no es evidente, observa cuánto cambia de un número al siguiente. Ahora sabes resolver secuencias crecientes (llamadas números triangulares).

🔍 Centro de Verificación – Misión 5 💎

🎯 Solución paso a paso

PASO 1: Encuentra el valor del Cristal Azul 🔷. Mira la primera pista, donde hay dos cristales iguales: 🔷 + 🔷 = **10**

- *Como los dos valen lo mismo, dividimos entre 2 :* **10 ÷ 2 = 5**

Cristal Azul 🔷 = 5 puntos

PASO 2: Descubre el valor del Cristal Verde 🟢. Usa el valor del Cristal Azul en la segunda pista: **5 + 🟢 = 13**

Calcula cuánto falta para llegar a 13 : **13 - 5 = 8**

Cristal Verde 🟢 = 8 puntos

PASO 3: Calcula el valor del Cristal Dorado ⭐. Ahora reemplaza el Cristal Verde en la tercera pista: **8 + ⭐ = 20**

Resta para encontrar su valor: 20 - 8 = 12

Cristal Dorado ⭐= 12 puntos

PASO 4: Suma la energía de los tres cristales juntos: **5 + 8 + 12 = 25 puntos.**

Respuestas:
🔷 Cristal Azul: **5 puntos** | 🟢 Cristal Verde: **8 puntos** | ⭐ Cristal Dorado**: 12 puntos**

⚡ Energía total de los 3 cristales juntos: **25 puntos.**

El truco de Mateo
Cuando tengas varias pistas con símbolos, empieza siempre por la fila donde aparecen elementos repetidos; esa es la llave que abre todo el acertijo.

🏅 Poder desbloqueado
¡Acabas de resolver un sistema de ecuaciones usando razonamiento lógico, la base del álgebra de los grandes científicos!

🔍 Centro de Verificación – Misión 6 🛡️

🎯 Solución paso a paso:

PASO 1: Descubre el primer dígito (las centenas). **La Pista 1 dice que el número es mayor que 300 y menor que 400**. Todos los números entre 301 y 399 empiezan por 3. Lo tenemos ✅ **Primer dígito = 3**

PASO 2: Calcula el último dígito (las unidades). La Pista 2 dice que el último número es el doble del primer número: **3 x 2 = 6**

- ✅ **Último dígito = 6**

PASO 3: Encuentra el dígito del centro (las decenas). La Pista 3 dice que la suma de los 3 dígitos es 14:

3 + ? + 6 = 14

- **Sumamos los dos dígitos que ya conocemos (3 + 6 = 9) y restamos: 14 - 9 = 5**

- ✅ **Dígito del centro = 5**

Respuesta:

- ⭐ **La contraseña secreta del escudo es: 3 - 5 - 6 (el número 356)**

🔎 **Pista secreta de Emma:**
En los acertijos de contraseñas, nunca intentes adivinar el número completo de una vez: ve llenando cada casilla pista por pista de izquierda a derecha.

🚀 **Lo que ahora sabes hacer**
Ahora sabes usar el valor posicional (centenas, decenas y unidades) junto con el razonamiento lógico para descifrar códigos secretos.

🔍 Centro de Verificación – Misión 7 🚓

🎯 Solución paso a paso

- **PASO 1:** Calcula cuántos kilómetros se acerca el Interceptor al Capitán Caos cada hora. Mientras el Camión Blindado avanza 60 km en una hora, el vehículo Interceptor recorre 80 km.

Calculamos la diferencia entre las dos velocidades para saber cuántos kilómetros se acerca en cada hora:

80 km/h - 60 km/h =20 km/h

- ✅ **Se acerca 20 km cada hora.**

- **PASO 2:** Calcula cuántas horas tarda en alcanzarlo. Si cada hora se acerca 20 km, dividimos los 100 km de ventaja entre 20.

- **100 km ÷ 20 km/h = 5 horas**

Respuestas:

- ⚡ **Velocidad a la que se acerca cada hora: 20 km/h**
- ⏱️ **Tiempo exacto de captura: 5 horas**
-

💡 Consejo de Mateo:

Si dos vehículos avanzan hacia el mismo lado, resta sus velocidades para descubrir qué tan rápido se reduce la distancia entre ellos.

🏅 Poder desbloqueado

Ahora sabes comparar velocidades para calcular exactamente cuánto tiempo tarda un vehículo en alcanzar a otro.

🔍 Centro de Verificación – Misión 8 🏃‍♂️🏃‍♀️

🎯 Solución paso a paso

PASO 1: Ubica al héroe que tiene una posición fija**. La Pista 3 dice que El Guardián llegó en último lugar. Como son 4 participantes, ya tenemos asegurado el 4.º puesto.**

✅ **4º lugar: El Guardián.**

PASO 2: Ordena a los tres héroes que quedan.

- La Pista 1 dice que Estrella Veloz llegó antes que Capitana Ingenio.
- La Pista 2 dice que El Rayo llegó justo detrás de Capitana Ingenio.

Al juntar ambas pistas, obtenemos el orden exacto de los primeros tres lugares: ***Estrella Veloz → Capitana Ingenio → El Rayo***

PASO 3: Revisa el podio completo del 1º al 4º lugar. Comprobamos que se cumplan las 3 pistas sin contradicciones.

Respuesta:

🥇 **1º: Estrella Veloz**
🥈 **2º: Capitana Ingenio**
🥉 **3º: El Rayo**
🛡️ **4º: El Guardián**

🧠 **El truco de Emma:**
En los acertijos de ordenamiento, empieza siempre por las pistas que te dan un dato seguro (como el primero o el último) y luego encaja las demás piezas alrededor.

⭐ **Tu nuevo superpoder matemático:**
Ahora dominas el razonamiento deductivo: sabes cruzar varias pistas para descartar opciones y encontrar una única solución lógica.

🔍 Centro de Verificación – Misión 9 🏆

🎯 Solución paso a paso

PASO 1: Calcula el área de cada lugar multiplicando largo x ancho.

🏢 **Área de la Plaza Central** = largo × ancho **8 m × 6 m= 48 m²**
📚 **Área de la Biblioteca** = largo × ancho **5 m× 4 m= 20 m²**
🏥 **Área del Centro Médico** = largo × ancho **5 m× 3 m = 15 m²**

PASO 2: Suma las tres áreas para saber el área total a reparar.

48 + 20 + 15 = 83 ⟶ ✅ **Área total = 83 m²**

PASO 3: Calcula cuántos bloques de energía se necesitan. Recuerda cada metro cuadrado (m²) necesita 2 bloques de energía, multiplicamos el área total por 2:

83 × 2 = 166 ⟶ ✅ **Se necesitan 166 bloques de energía.**

PASO 4: Compara con los 150 bloques del almacén. Necesitamos 166 bloques, pero solo tenemos 150, así que no alcanzan. Restamos para ver cuántos faltan:

166 - 150 = 16 bloques

Respuestas:

- 🏢 Área de la Plaza Central**: 48 m²**
- 📚 Área de la Biblioteca: **20 m²**
- 🏥 Área del Centro Médico**: 15 m²**
- 📐 Área total a reparar: **83 m²**
- ⚡ Bloques de energía necesarios: **166 bloques**
- 📦 **¿Alcanzan los 150 bloques? [X] No, faltan 16 bloques**

💡 Estrategia de Mateo

Los grandes desafíos se vuelven más fáciles cuando los resuelves paso a paso**.**

🏅 Poder desbloqueado

¡Lo lograste! Combinaste geometría (cálculo de áreas) y gestión de recursos, exactamente como trabajan los arquitectos e ingenieros.

🏆 ¡FELICIDADES!

¡Has completado las 9 misiones!

Gracias a tu ayuda, los héroes lograron detener los planes de Capitán Caos Numérico y devolver el orden a la ciudad.

Pero lo más importante es que descubriste que:

✅ Cada reto tiene una solución.
✅ Las pistas están por todas partes.
✅ Los errores ayudan a aprender.

Y las mejores ideas aparecen cuando sigues intentando.

Las matemáticas no consisten en encontrar respuestas rápidamente, sino en observar, pensar, probar ideas y descubrir soluciones.

Cada misión te ayudó a entrenar el superpoder que llevas dentro:

Tu capacidad para pensar.

💙 Sigue explorando.
💙 Sigue preguntando.
💙 Sigue aprendiendo.

Te doy la bienvenida al equipo oficial de los Superhéroes de las Matemáticas.

¡**Escanea el código y acompáñame en YouTube** para descubrir nuevos retos y desafíos!

— Tu amigo Mateo



www.youtube.com/@Mateomatematicasoficial

© 2026 Mateo Matemáticas. Todos los derechos reservados.
Este material es una obra original protegida por derechos de autor. Se autoriza su descarga e impresión únicamente para uso personal, familiar o en el aula de clase. Queda estrictamente prohibida su venta, distribución comercial, modificación o reproducción parcial o total con fines de lucro.


DIPLOMA
DE MISIONES MATEMÁTICAS
Se otorga a:
Por completar con éxito todas las misiones matemáticas y demostrar valor, esfuerzo y superpoderes mentales para salvar la ciudad del caos.
¡FELICIDADES!
La ciudad está orgullosa de ti.
Aprobado por
MATEO
MISIÓN COMPLETADA
Aprobado por
EMMA
¡SIGUE APRENDIENDO, SIGUE CRECIENDO, SIGUE SIENDO UN HÉROE MATEMÁTICO!